MODEL SORU

Aşağıda verilen basamak tablosunda onluk taban blokların belirttiği sayıyı yazalım. Bu sayıların rakamlarının basamak değerlerini bulalım. Sayıların okunuşunu yazalım.

		Basamak Adları		
		Yüzler b.	Onlar b.	Birler b.
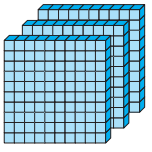 3 yüzlük 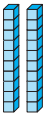 2 onluk 5 birlik	Sayı	3	3	5
	Rakamın basamak değeri	200	30	5
Sayının Okunuşu	.....			
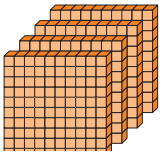 ..... 	Sayı	.....	.....	.....
	Rakamın basamak değeri	.....	.....	.....
Sayının Okunuşu	.....			
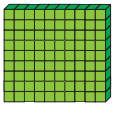	Sayı	.....	.....	.....
	Rakamın basamak değeri	.....	.....	.....
Sayının Okunuşu	.....			
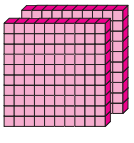 ..... 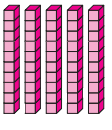	Sayı	.....	.....	.....
	Rakamın basamak değeri	.....	.....	.....
Sayının Okunuşu	.....			
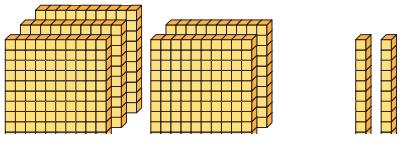	Sayı	.....	.....	.....
	Rakamın basamak değeri	.....	.....	.....
Sayının Okunuşu	.....			
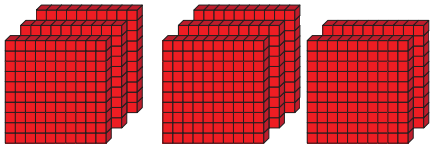	Sayı	.....	.....	.....
	Rakamın basamak değeri	.....	.....	.....
Sayının Okunuşu	.....			

DOĞAL SAYILAR VE BASAMAKLARI

1. Aşağıda verilen onluk taban bloklarının belirttiği sayıları ve okunuşlarını altlarına yazınız.

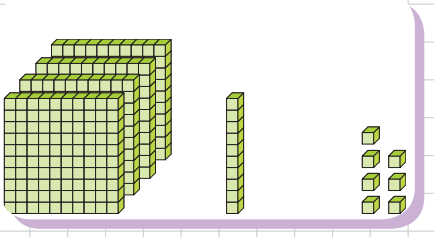

Sayı: .....
Okunuşu: .....

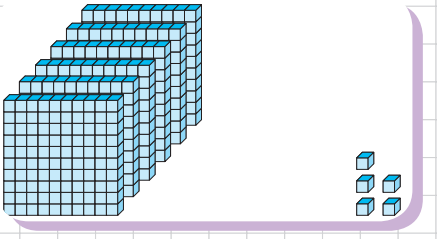

Sayı: .....
Okunuşu: .....

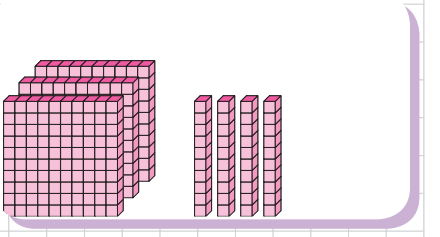

Sayı: .....
Okunuşu: .....

2. Aşağıda verilen doğal sayıların okunuşlarını yazınız.

800	→	323	→ .....
595	→	909	→ .....
444	→	652	→ .....
199	→	251	→ .....
346	→	100	→ .....

3. Aşağıda okunuşları verilen doğal sayıları rakamla yazınız.

- dört yüz yirmi sekiz → .....
- yüz yetmiş dokuz → .....
- üç yüz seksen yedi → .....
- altı yüz on beş → .....
- beş yüz on → .....
- yüz on beş → .....
- iki yüz on iki → .....
- dokuz yüz → .....
- sekiz yüz sekiz → .....
- yüz elli beş → .....

Basamak Adları ve Basamak Değerleri

1. Aşağıda modellenmiş olan sayılara 1 birlik ekleniyor. Elde edilen sayıları ve okunuşlarını yanlarına yazınız.

Sayı Okunuşu

a. 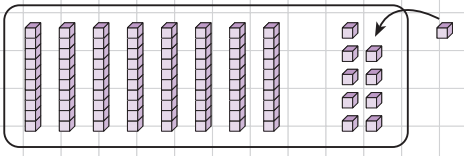 → ..... → .....

b. 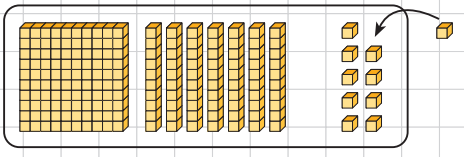 → ..... → .....

c. 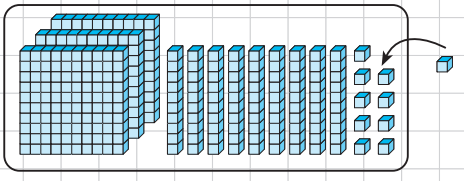 → ..... → .....

ç. 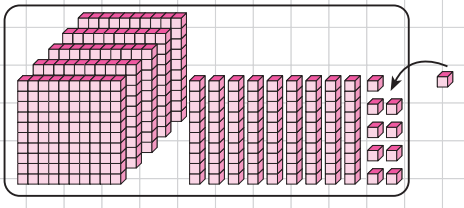 → ..... → .....

2. Sayı doğrusu üzerinde oklarla gösterilen noktaların belirttiği sayıları kutucuklara yazınız.

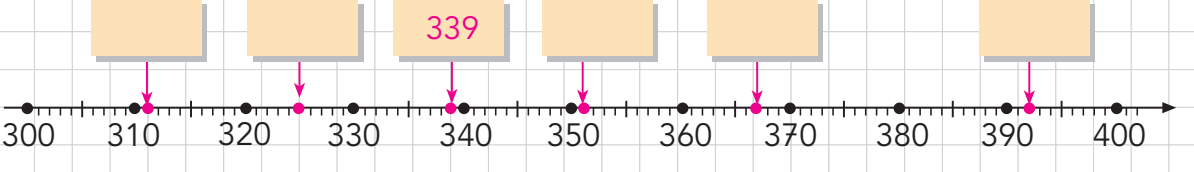

3. Aşağıdaki modellenen sayıları ve okunuşlarını yazınız.



Sayı → Okunuşu

..... → .....

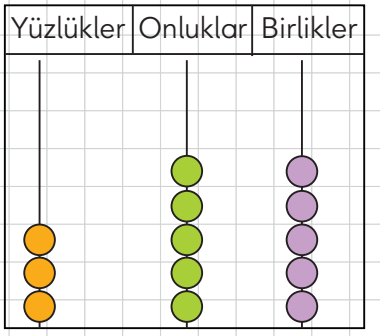

Sayı → Okunuşu

..... → .....

4. Aşağıda yüzlük, onluk ve birlik sayıları verilen üç basamaklı sayıları yazınız.

a. 5 yüzlük, 3 onluk, 9 birlik → .....

b. 6 birlik, 7 onluk, 8 yüzlük → .....

c. 2 onluk, 6 yüz → .....

ç. 4 birlik, 4 yüzlük → .....

5. Aşağıdaki sayılarla ilgili istenen basamak değerlerini bulunuz.

a. 892 sayısının yüzler basamağındaki rakamının basamak değeri → .....

b. 107 sayısının onlar basamağındaki rakamının basamak değeri → .....

c. 903 sayısının birler basamağındaki rakamının basamak değeri → .....

6. Aşağıdaki sayıların, okunuşlarını ve rakamlarının basamak değerlerini örnekteki gibi noktalı yerlere yazınız.

743 → yedi yüz kırk üç

..... → .....

..... → .....

..... → .....

7. Basamak tablosundaki örneğe benzer şekilde, sayıların rakamlarının basamak değerlerini noktalı yerlere yazınız.

Basamak adları	Yüzler basamağı	Onlar basamağı	Birler basamağı
Sayı	752		
Rakamın basamak değeri	700	50	2

Basamak adları	Yüzler basamağı	Onlar basamağı	Birler basamağı
Sayı	309		
Rakamın basamak değeri	.....	.....	.....

Basamak adları	Yüzler basamağı	Onlar basamağı	Birler basamağı
Sayı	863		
Rakamın basamak değeri	.....	.....	.....

Basamak adları	Yüzler basamağı	Onlar basamağı	Birler basamağı
Sayı	796		
Rakamın basamak değeri	.....	.....	.....

Basamak adları	Yüzler basamağı	Onlar basamağı	Birler basamağı
Sayı	930		
Rakamın basamak değeri	.....	.....	.....

Basamak adları	Yüzler basamağı	Onlar basamağı	Birler basamağı
Sayı	640		
Rakamın basamak değeri	.....	.....	.....

TEST - 4

1.

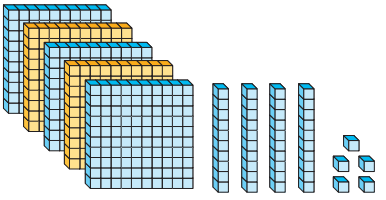

Yukarıda onluk taban bloklarıyla modellenen sayı kaçtır?

A. 445 B. 545 C. 555

2. **"0, 4, 3" rakamları kullanılarak yazılabilecek en büyük üç basamaklı doğal sayı kaçtır?**

A. 304 B. 340 C. 430

3. **707 sayısının onlar basamağındaki rakamın basamak değeri ile birler basamağındaki rakamın sayı değeri toplamı kaçtır?**

A. 7 B. 70 C. 700

4. **6 yüzlük 6 birlikten oluşan doğal sayı kaçtır?**

A. 66 B. 606 C. 660

5.

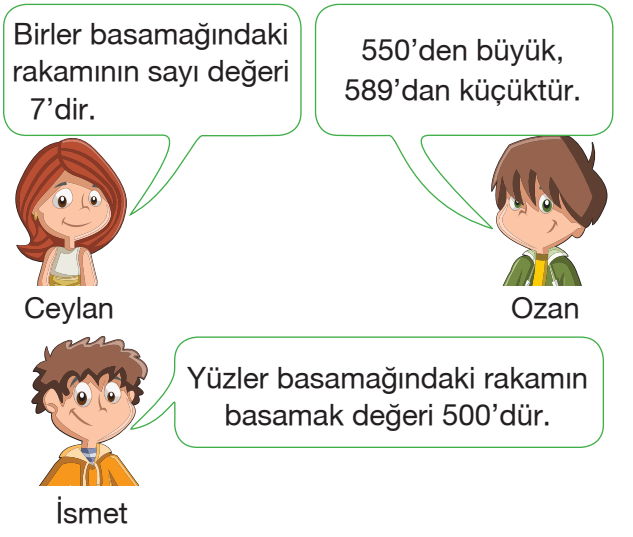

Yukarıdaki öğrencilerin bahsettiği sayı aşağıdakilerden hangisi olabilir?

A. 507 B. 587 C. 750

6. **Yandaki abaküsle gösterilen sayı kaçtır?**

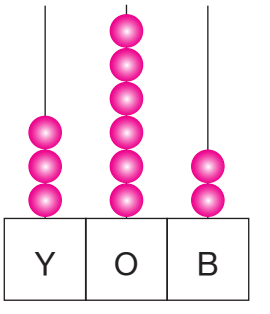

A. 352 B. 362 C. 263

7. Üç basamaklı ■65 sayısının rakamlarının basamak değerleri toplamı 965'tir.

Buna göre ■ yerine yazılabilecek rakamın basamak değeri kaçtır?

A. 9 B. 90 C. 900

Berkay Yayıncılık ©

DOĞAL SAYILARI EN YAKIN ONLUĞA YUVARLAMA

1. Aşağıda verilen sayı doğrusunda kutu içindeki sayıların en yakın olduğu onluğu okla gösteriniz.

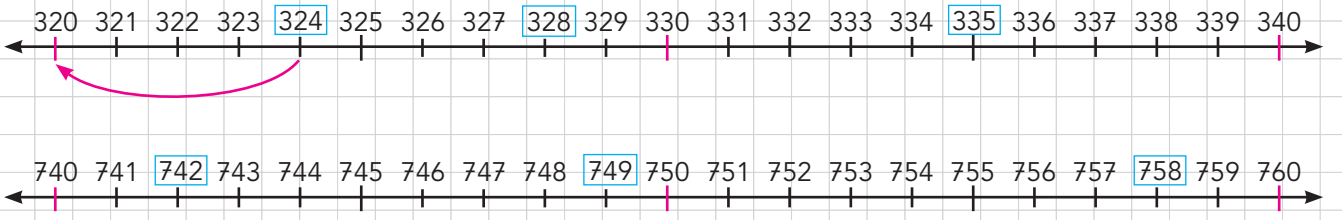

2. Tabloları örnekteki gibi doldurunuz.

Birlikler		
418	419	420
	935	
	461	
	704	
	178	
	73	

Onluklar		
410	419	420
	935	
	461	
	704	
	178	
	73	

En Yakın Olduğu Onluk	
419	420
935	
461	
704	
178	
73	

3. Aşağıdaki sayıları en yakın onluğa yuvarlayınız.

a. 19 → ☐ b. 25 → ☐ c. 146 → ☐

ç. 371 → ☐ d. 807 → ☐ e. 702 → ☐

f. 964 → ☐ g. 108 → ☐ ğ. 143 → ☐

4. Aşağıdaki sayıların en yakın onluğa yuvarlanmış hâlini işaretleyiniz.

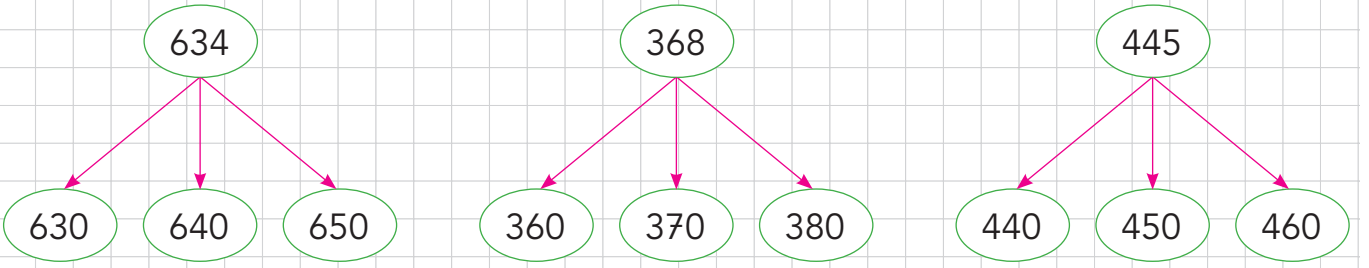

5. Aşağıdaki tablolarda verilen sayıları en yakın onluğa yuvarlayarak doldurunuz.

Para Miktarı	Yuvarlama
168 TL	
375 TL	
442 TL	
554 TL	

Uzunluk	Yuvarlama
95 cm	
144 cm	
251 cm	
173 cm	

Tartı	Yuvarlama
49 kg	
55 kg	
244 kg	
353 kg	

6. Rakamları eksik verilen sayılar en yakın onluğa yuvarlandığında 940'ı vermektedir. Her biri için mümkün olan bütün sayıları yazınız.

a. □38 → 940 .....

b. □44 → 940 .....

c. 9□5 → 940 .....

ç. 9□3 → 940 .....

d. 94□ → 940 .....

e. 93□ → 940 .....

DOĞAL SAYILARI KARŞILAŞTIRMA

1. Resimdeki sevimli fil yavrularından hangisi daha ağırdır? İşaretleyiniz.

205 ve 225 sayılarını "<" ya da ">" sembollerini kullanarak karşılaştırınız.

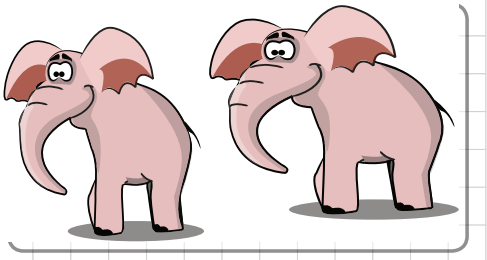

205 kilogram ☐ 225 kilogram ☐

2. Aşağıda onluk taban blokları ile modellenmiş sayılar verilmiştir. Sayıları yazıp karşılaştırarak "<", ">" veya "=" sembollerinden uygun olanı kutu içine yazınız.

a.

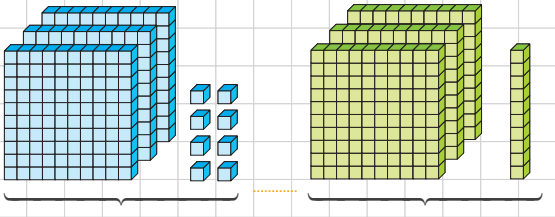

..... ☐ .....

b.

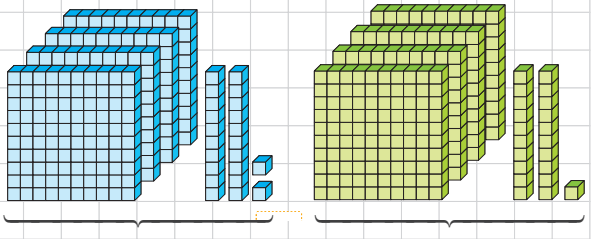

..... ☐ .....

c.

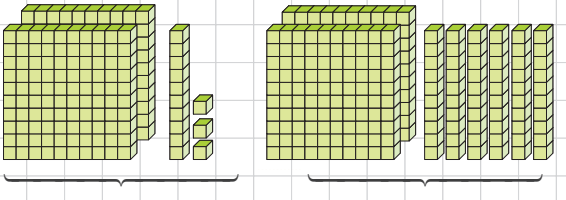

..... ☐ .....

ç.

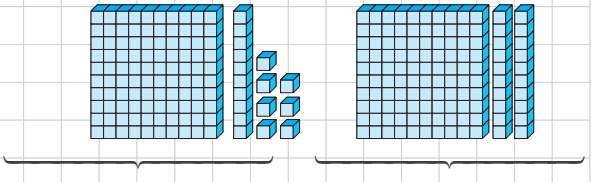

..... ☐ .....

3. Aşağıdaki sayıları noktalı yerlere "<", ">" ve "=" sembollerinden uygun olanı yazarak karşılaştırınız.

a. 178 187

b. 349 351

c. 630 603

ç. 401 387

d. 282 282

e. 600 544

f. 499 521

g. 598 712

4. Aşağıda yüzlük, onluk ve birlikleri verilen sayıları noktalı yerlere yazınız.
Sayıları karşılaştırarak aralarına "<", ">" ve "=" sembollerinden uygun olanı yazınız.

a. 4 onluk, 3 yüzlük, 2 birlik ile 6 birlik, 4 onluk , 3 yüzlük

....

b. 4 yüzlük, 8 onluk, 3 birlik ile 8 onluk, 3 birlik, 4 yüzlük

....

c. 9 onluk, 9 yüzlük, 9 birlik ile 9 birlik, 9 yüzlük

....

5. Aşağıda, bir okuldaki ağaç dikme kampanyasına katılan sınıflardaki öğrencilerin diktiği fidan sayıları verilmiştir.

1. sınıflar → **387** | 2. sınıflar → **289** | 3. sınıflar → **394** | 4. sınıflar → **286**

Dikilen fidan sayılarına göre aşağıdaki ifadelerden doğru olanların başına "D", yanlış olanların başına "Y" yazınız.

a. (.....) En az sayıda fidanı 2. sınıflar dikmiştir.

b. (.....) 3. sınıflar, 4. sınıflardan daha fazla sayıda fidan dikmiştir.

c. (.....) 1. sınıfların diktikleri fidan sayısı 3. sınıflardan azdır.

DOĞAL SAYILARI SIRALAMA

1. Aşağıda verilen para miktarlarını bulunuz. Sembol kullanarak sayıları küçükten büyüğe doğru sıralayınız.



..... □ ..... □ .....

....

2. Abaküslerde modellenmiş olan sayıları büyükten küçüğe doğru sembol kullanarak sıralayınız.

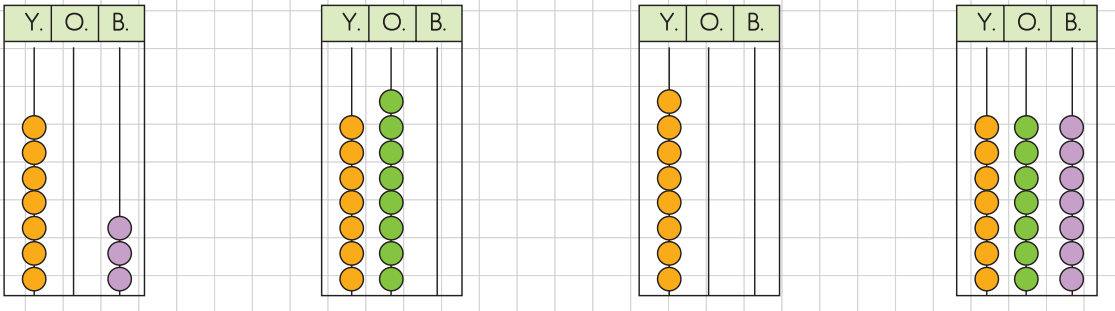

..... □ ..... □ ..... □ .....

....

3.

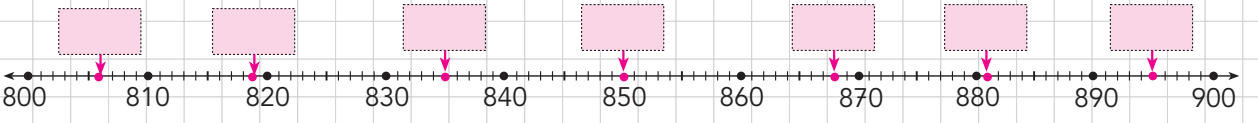

Sayı doğrusunda oklarla gösterilen noktalara karşılık gelen sayıları kutucuklara yazınız. Yazdığınız bu sayıların;

a. 869'dan küçük olanları belirleyerek sayıları, büyükten küçüğe doğru sıralayınız.

b. 820'den büyük olanları belirleyerek sayıları, küçükten büyüğe doğru sıralayınız.

4. Aşağıdaki sayıları büyükten küçüğe doğru semboller kullanarak sıralayınız.

a. 805, 820, 779, 850

b. 149, 111, 97, 151, 200

c. 123, 146, 106, 118, 135

ç. 515, 500, 490, 487, 509

d. 547, 476, 502, 549, 498

e. 348, 339, 354, 300, 327

5. Aşağıda verilen ifadeleri, kutucuklardaki sayılardan uygun olanı ile eşleştiriniz.

Üç basamaklı en büyük sayı	100
800'den küçük olan en büyük sayı	801
İki basamaklı en büyük sayının 1 fazlası	377
800 ile 850 arasındaki bir sayı	999
376 ile 396 arasındaki sayıların en küçüğü	703
	799

1. **Yanda verilen sayılar en yakın onluğa yuvarlandığında hangilerinden 520 sayısı elde edilir?**

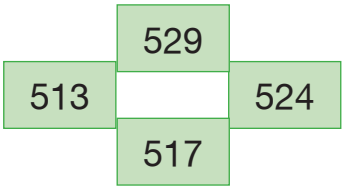

A. 513-524 B. 517-529 C. 517-524

2. Tahtadaki sayı en yakın onluğa yuvarlanmıştır. **Buna göre 🙂 yerine aşağıdaki rakamlardan hangisi <u>yazılamaz</u>?**

A. 3 B. 5 C. 9

3. **5, 4, 0, 1 rakamları birer kez kullanılarak oluşturulabilecek üç basamaklı en büyük ve en küçük sayılar aşağıdakilerden hangileridir?**

A. 541-104 B. 451-401 C. 451-104

4.
- 620 > 612 > 599 > 578
- 378 > 387 > 369 > 347
- 809 < 814 < 824 < 842

Yukarıda verilen sıralamalardan kaç tanesi doğrudur?

A. 1 B. 2 C. 3

Berkay Yayıncılık ©

5.

1	24	→	30
2	246	→	250
3	182	→	180

Yukarıdaki kaç numaralı sayıların yakın oldukları onluklar doğru verilmiştir?

A. 1 ve 2 B. 1 ve 3 C. 2 ve 3

6. Sema yanda verilen sayıdan önce ve sonra gelen sayıların en yakın onluğa yuvarlanışını defterine yazıyor.

?	95	?

Sema'nın defterine yazdığı sayılar kaçtır?

A. 90-90 B. 80-100 C. 90-100

7.

116 TL	89 TL	127 TL

Ünal Bey yukarıdaki ürünleri alıyor.

Ünal Bey'in aldığı ürünlerin ucuzdan pahalıya sıralaması aşağıdakilerden hangisidir?

A. kazak - ayakkabı - kaban
B. kaban - ayakkabı - kazak
C. kaban - kazak - ayakkabı

MODEL SORU

Ritmik sayma ne demektir? Yüzlük tabloya bakarak ikişer, üçer, dörder, beşer, altışar, yedişer, sekizer, dokuzar ve onar ritmik sayalım.

1	2	3	4	5	6	7	8	9	10
11	12	13	14	15	16	17	18	19	20
21	22	23	24	25	26	27	28	29	30
31	32	33	34	35	36	37	38	39	40
41	42	43	44	45	46	47	48	49	50
51	52	53	54	55	56	57	58	59	60
61	62	63	64	65	66	67	68	69	70
71	72	73	74	75	76	77	78	79	80
81	82	83	84	85	86	87	88	89	90
91	92	93	94	95	96	97	98	99	100

Altışar Ritmik Sayma

1. Yüzlük tabloda 6'dan başlayarak altışar ritmik sayınız. Söylediğiniz sayıları boyayınız.

Tablodan yararlanarak aşağıdaki örüntüde boş bırakılan kutucukları doldurunuz.

1	2	3	4	5	6	7	8	9	10
11	12	13	14	15	16	17	18	19	20
21	22	23	24	25	26	27	28	29	30
31	32	33	34	35	36	37	38	39	40
41	42	43	44	45	46	47	48	49	50
51	52	53	54	55	56	57	58	59	60
61	62	63	64	65	66	67	68	69	70
71	72	73	74	75	76	77	78	79	80
81	82	83	84	85	86	87	88	89	90
91	92	93	94	95	96	97	98	99	100

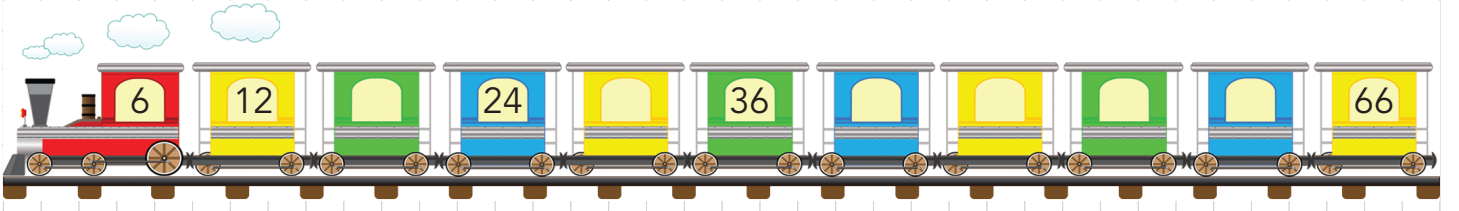

2. Aşağıdaki çiçeklerin üzerinde belirtilen ritmik sayma işlemini yapınız.



Yedişer Ritmik Sayma

1. Yüzlük tabloda 7'den başlayarak yedişer ritmik sayınız. Saydığınız sayıları yuvarlak içine alınız.

Tablodan yararlanarak aşağıdaki örüntüde boş bırakılan kutucukları doldurunuz.

1	2	3	4	5	6	7	8	9	10
11	12	13	14	15	16	17	18	19	20
21	22	23	24	25	26	27	28	29	30
31	32	33	34	35	36	37	38	39	40
41	42	43	44	45	46	47	48	49	50
51	52	53	54	55	56	57	58	59	60
61	62	63	64	65	66	67	68	69	70
71	72	73	74	75	76	77	78	79	80
81	82	83	84	85	86	87	88	89	90
91	92	93	94	95	96	97	98	99	100

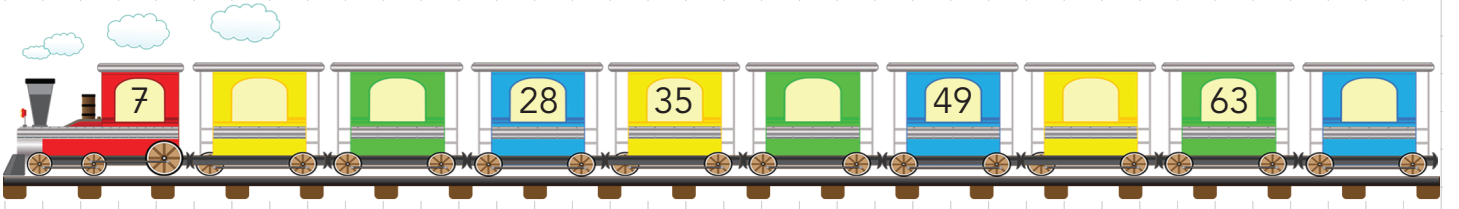

2. Aşağıdaki meyvelerin üzerinde belirtilen ritmik sayma işlemlerini yapınız.



Sekizer Ritmik Sayma

1. Yüzlük tabloda 4'ten başlayarak dörder 8'den başlayarak sekizer ritmik sayınız. Söylediğiniz sayıları yuvarlak içine alınız.

1	2	3	4	5	6	7	8	9	10
11	12	13	14	15	16	17	18	19	20
21	22	23	24	25	26	27	28	29	30
31	32	33	34	35	36	37	38	39	40
41	42	43	44	45	46	47	48	49	50
51	52	53	54	55	56	57	58	59	60
61	62	63	64	65	66	67	68	69	70
71	72	73	74	75	76	77	78	79	80
81	82	83	84	85	86	87	88	89	90
91	92	93	94	95	96	97	98	99	100

Tablodan yararlanarak 4'ün katlarını yazınız.



Daha sonra 8'den başlayıp birer atlayarak yazdığınız sayıları yüzlük tabloda boyayınız. Bu sayıları yazınız.

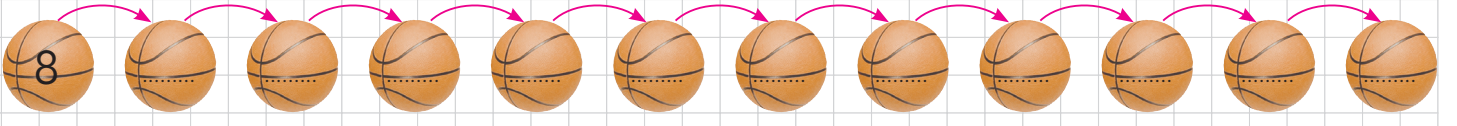

2. Sayı doğruları boyunca sekizer atlayarak eşit aralıklarla devam ediniz.

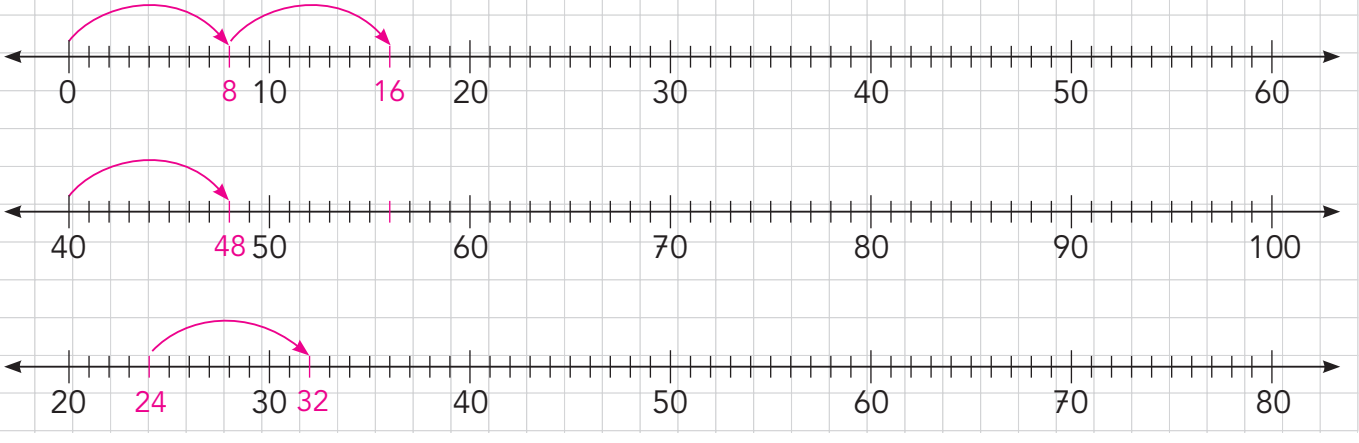

Dokuzar Ritmik Sayma

1. Yüzlük tabloda 9'dan başlayarak dokuzar ritmik sayınız. Saydığınız sayıları yuvarlak içine alınız.

Bulduğunuz sayılara göre aşağıdaki soruları cevaplayınız.

1	2	3	4	5	6	~~7~~	8	(9)	10
11	12	13	14	15	16	~~17~~	18	19	20
21	22	23	24	25	26	~~27~~	28	29	30
31	32	33	34	35	36	~~37~~	38	39	40
41	42	43	44	45	46	~~47~~	48	49	50
51	52	53	54	55	56	~~57~~	58	59	60
61	62	63	64	65	66	~~67~~	68	69	70
~~71~~	~~72~~	~~73~~	~~74~~	~~75~~	~~76~~	~~77~~	~~78~~	~~79~~	80
81	82	83	84	85	86	~~87~~	88	89	90
91	92	93	94	95	96	~~97~~	98	99	100

a. Yüzlük tabloda kaç tane sayıyı yuvarlak içine aldınız?

b. Yuvarlak içine aldığınız son sayı kaçtır?

c. 9'dan başlayarak dokuzar ritmik sayarken söylediğiniz 3. sayı kaçtır?

ç. 45'den başlayarak dokuzar ritmik sayarken söylediğiniz 5. sayı kaçtır?

d. ~~72~~ sayısı, 9'dan başlayarak dokuzar ritmik sayarken söylenen kaçıncı sayıdır?

2. Aşağıda karışık olarak verilen ritmik saymaları bulunuz.

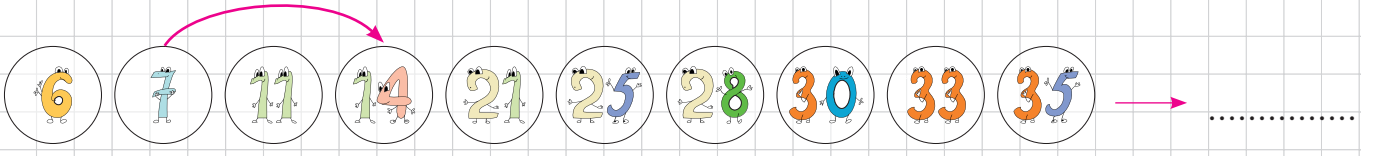

Örüntüdeki İlişkiyi Belirleme ve Genişletme

1. Yandaki gibi boncuklarla oluşturulan örüntüdeki ilişkiyi açıklayınız. Son iki çizimi tamamlayarak oluşan sayı örüntüsünü yazınız.

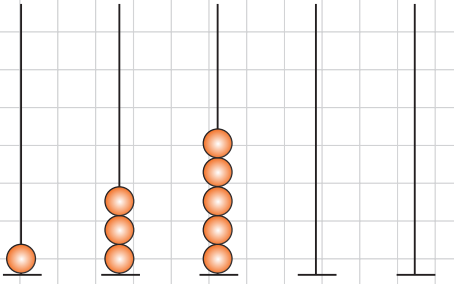

2.

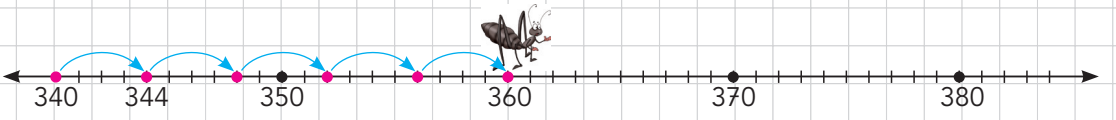

Sevimli çekirgenin zıplayarak ulaştığı sayılar bir sayı örüntüsü oluşturmaktadır. Sayı örüntüsünün kuralına göre çekirgeyi, bulunduğu yerden üç adım daha ilerletiniz. Oluşan sayı örüntüsünü yazınız.

3. Aşağıda verilen her bir örüntüdeki ilişkiyi belirleyerek örüntüleri ikişer adım genişletiniz.

a.

1. adım	2. adım	3. adım	.....	.....
3	6	.....	4. adım	5. adım .....

b.

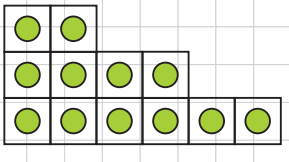

1. kat → 2
2. kat → .....
3. kat → .....

4. Aşağıdaki sayı örüntülerini üçer adım ilerletiniz.

a. 238, 243, 248, 253, ..., ..., ...

b. 330, 340, 350, 360, ..., ..., ...

c. 425, 430, 435, 440, ..., ..., ...

5. Aşağıda verilen örüntüleri inceleyelim. Örüntülerin kuralını açıklayalım.

a.

b.

c.

ç.

6. Aşağıda verilen sayı örüntülerinde eksik verilen sayıyı bulup yazınız.

a. 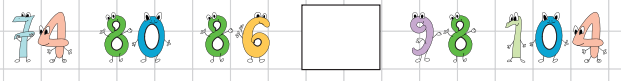

b. 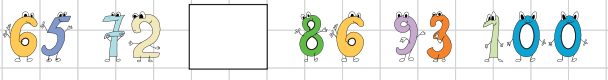

c. 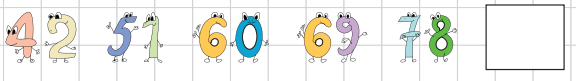

ç.

1. 3 11 18 28 35 43

Esin 3'ten başlayarak sekizer ritmik sayma yapıyor ve söylediği sayıları yazıyor.

Buna göre Esin hangi sayıları yanlış söylemiştir?

A. 11 - 28 B. 28 - 35 C. 18 - 28

2. Berk bilyelerini altışarlı gruplar oluşturarak küçük sepetlere koyuyor.

Berk 7 sepet kullandığına göre Berk'in kaç bilyesi vardır?

A. 42 B. 38 C. 36

3.

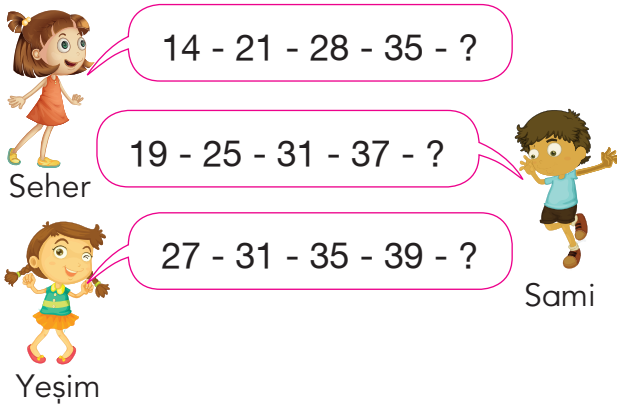

Yukarıdaki öğrencilerin yaptığı ritmik saymalara göre hangi ikisinin beşinci söyleyeceği sayı aynıdır?

A. Seher-Yeşim B. Sami-Seher C. Yeşim-Sami

4.

1	2	3	4	5	6	~~7~~	8	9	10
11	12	13	14	15	16	~~17~~	18	19	20
21	22	23	24	25	26	~~27~~	28	29	30
31	32	33	34	35	36	~~37~~	38	39	40
41	42	43	44	45	46	~~47~~	48	49	50
51	52	53	54	55	56	~~57~~	58	59	60

Sertan yukarıda bir bölümü verilen yüzlük tabloda yedişerli sayma yapıyor ve söylediği sayıları boyuyor.

Buna göre Sertan hangi sayıyı yanlış boyamıştır?

A. 35 B. 48 C. 56

5. **32'den başlayıp ileriye doğru sekizer ritmik sayarken aşağıdaki sayılardan hangileri söylenmez?**

A. 46 - 62 B. 40 - 80 C. 56 - 72

6.

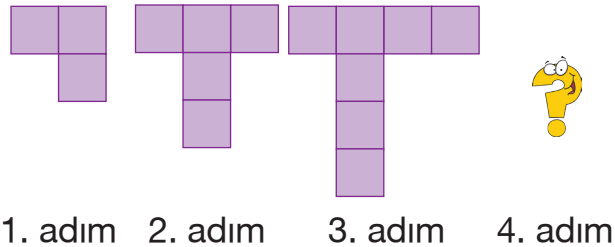

1. adım 2. adım 3. adım 4. adım

Yukarıdaki örüntü devam ettirildiğinde 4. adımda aşağıdakilerden hangisi olur?

A.  B. 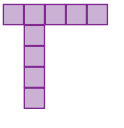 C. 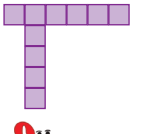

Berkay Yayıncılık ©

MODEL SORU

Bir sayının çift mi, tek mi olduğunu nasıl belirleriz? Aşağıdaki modellemeyi inceleyerek açıklayalım.

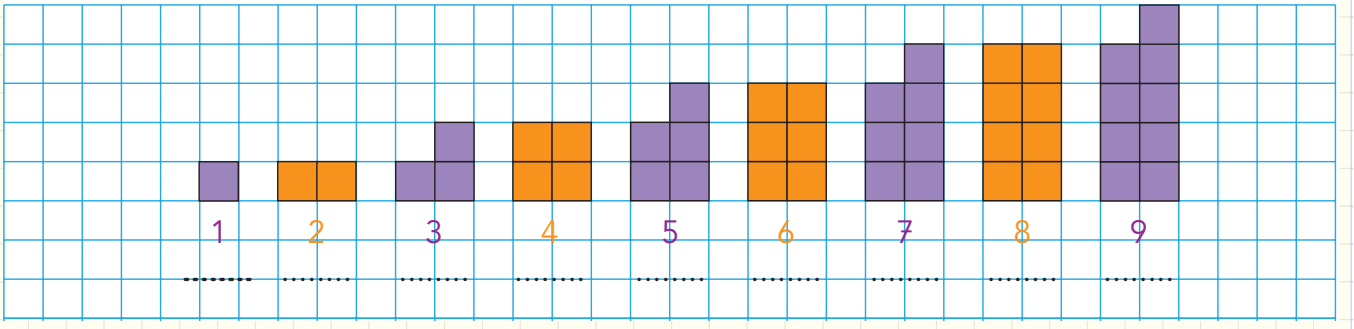

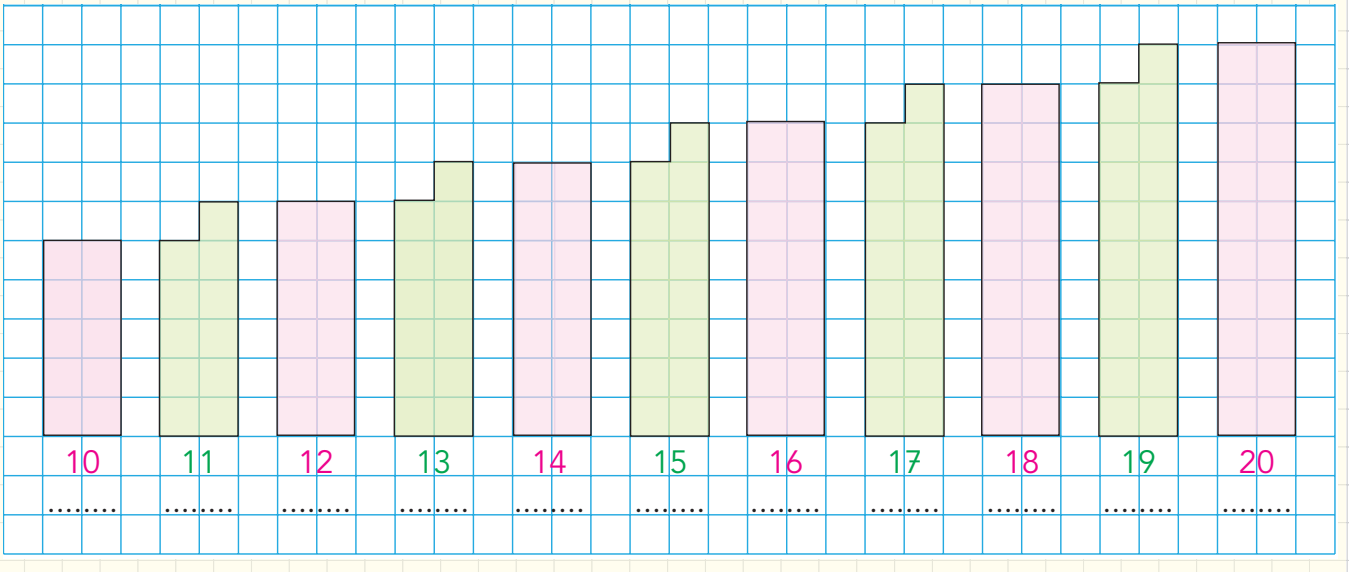

TEK VE ÇİFT SAYILAR

1. Yandaki yüzlük tabloda tek sayıların bulunduğu kutucukları pembeye, çift sayıların bulunduğu kutucukları maviye boyayınız.

1	2	3	4	5	6	7	8	9	10
11	12	13	14	15	16	17	18	19	20
21	22	23	24	25	26	27	28	29	30
31	32	33	34	35	36	37	38	39	40
41	42	43	44	45	46	47	48	49	50
51	52	53	54	55	56	57	58	59	60
61	62	63	64	65	66	67	68	69	70
71	72	73	74	75	76	77	78	79	80
81	82	83	84	85	86	87	88	89	90
91	92	93	94	95	96	97	98	99	100

a. Pembeye boyadığınız sayıların birler basamağında hangi rakamlar vardır?

b. Maviye boyadığınız sayıların birler basamağında hangi rakamlar vardır?

2. Aşağıda toplama işlemleri modellenmiştir. Yapılan işlemleri yazınız. Tek ve çift sayıların toplamlarının tek veya çift sayı olduğunu belirleyiniz.

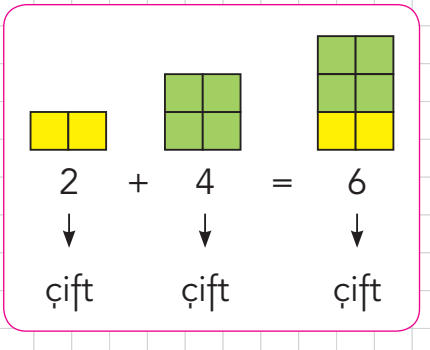

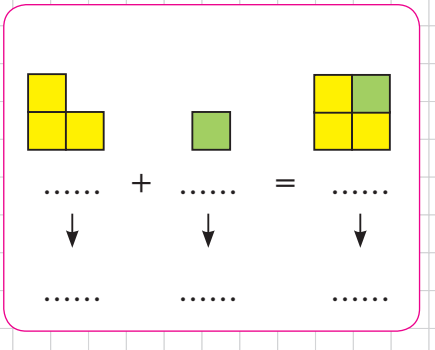

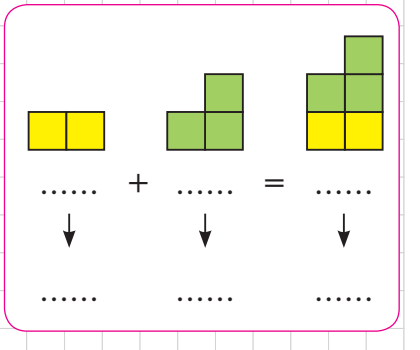

3. Aşağıdaki toplama işlemlerinin sonuçlarının tek mi yoksa çift mi olduğunu işlem yapmadan belirleyiniz. Sonucu tek olanların yanına "T", çift olanların yanına "Ç" yazınız.

9 + 8 → ..... 7 + 4 → ..... 3 + 3 → .....

8 + 8 → ..... 5 + 2 → ..... 10 + 9 → .....

6 + 2 → ..... 15 + 25 → ..... 14 + 4 → .....

4. Aşağıda çıkarma işlemleri modellenmiştir. Yapılan işlemleri yazınız. Tek ve çift sayıların farklarının, tek veya çift sayı olduğunu belirleyiniz.

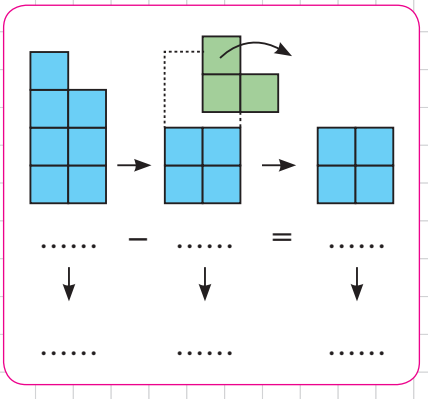

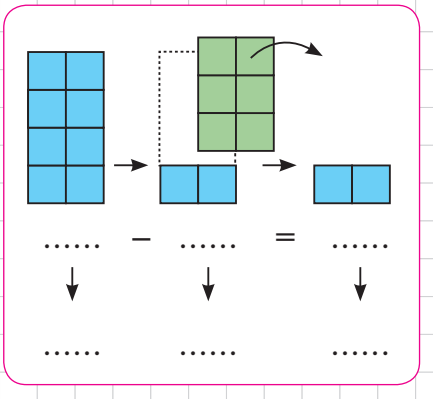

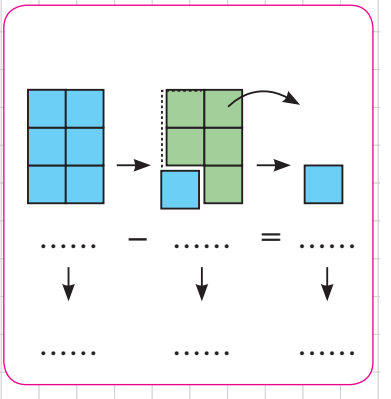

5. Aşağıdaki çıkarma işlemlerinin sonuçlarının tek mi yoksa çift mi olduğunu işlem yapmadan belirleyiniz. Sonucu tek olanların yanına "T", çift olanların yanına "Ç" yazınız.

10 – 2 → ..... 15 – 8 → ..... 20 – 12 → .....

17 – 11 → ..... 31 – 13 → ..... 40 – 7 → .....

8 – 1 → ..... 24 – 16 → ..... 34 – 25 → .....

6. Mandallarla tutulan kâğıtlara, sayı aralığı verilen sayıları sırasıyla yazınız.

a. 745 ile 765 arasındaki çift sayılar



b. 394 ile 414 arasındaki tek sayılar



7. Aşağıdaki kutularda bazı sayıların basamak değerleri verilmiştir. Örnekteki gibi basamak değerlerinden yararlanarak istenen sayıları yazınız.

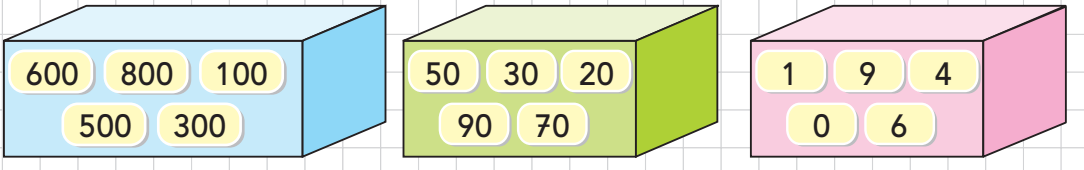

En küçük tek sayı : 100 + 20 + 1 = 121

a. En büyük sayı : .....

b. En küçük çift sayı : .....

c. 600'den büyük en küçük tek sayı : .....

ç. 150'den küçük çift sayılar : .....

.....

8. "9, 2, 6" rakamlarıyla üç basamaklı çift sayılar oluşturunuz. Oluşturduğunuz sayıları büyükten küçüğe doğru sıralayınız.

9. "7, 3, 0, 8" rakamlarını birer defa kullanarak oluşturulabilecek üç basamaklı sayıları yazınız.

a. En büyük sayı: .....

b. En küçük tek sayı: .....

c. 300 ile 800 arasındaki sayılar: .....

ç. En büyük çift sayı: .....

10. Aşağıdaki ifadelerden doğru olanların başına "D", yanlış olanların başına "Y" yazınız.

(.....) 999 üç basamaklı en büyük tek sayıdır.

(.....) Çift sayı ile tek sayının toplamı, çift sayıdır.

(.....) Rakamları birbirinden farklı üç basamaklı en küçük tek sayı, 101'dir.

(.....) Birler basamağındaki rakamı "0" olan sayılar, çift sayıdır.

1.

24 35 70 97

Yukarıdaki eşyalardan tek sayılı olanlar Derya'ya aittir.

Hangileri Derya'nın eşyalarıdır?

A. kalem - silgi
B. silgi - oyuncak bebek
C. kalem - toka

2.

Yukarıdaki rakamlar birer kez kullanılarak üç basamaklı kaç tane çift sayı yazılabilir?

A. 1 B. 2 C. 3

3. sayısı üç basamaklı tek sayıdır.

Buna göre yerine yazılabilecek sayıların toplamı kaçtır?

A. 9 B. 16 C. 25

4.

Yukarıdaki rakamlar birer kez kullanılarak yazılabilecek tek sayı kaçtır?

A. 344 B. 443 C. 434

Berkay Yayıncılık ©

5.

Ayfer: 1'den başlayarak ikişer ritmik sayma yaptım.

4'ten başlayarak üçer ritmik sayma yaptım. — Cengiz

Galip: 2'den başlayarak dörder ritmik sayma yaptım.

Yukarıdaki öğrencilerden hangisinin yaptığı saymadaki sayıların tamamı tek sayıdır?

A. Ayfer B. Galip C. Cengiz

6. Kaya iki basamaklı iki çift sayıyı toplu-yor.

Bu toplamın sonucu aşağıdaki sayılardan hangisi olamaz?

A. 196 B. 190 C. 185

7. İki kuzunun ayaklarının sayısından 1 fazlayım.

Yukarıdaki sayıda verilmeyen rakamın ifadesine göre, bu sayıyla ilgili hangisi doğrudur?

A. Tek sayıdır.
B. Çift sayıdır.
C. Birler basamağı 3'tür.

MODEL SORULAR

Romen rakamlarının belirttiği sayıları karşılarına yazalım. Romen rakamlarının yazılışlarındaki özelliklere dikkat edelim.

I → II → III → IV → V →

VI → VII → VIII → IX → X →

XI → XII →

Sayılara karşılık gelen romen rakamlarını yazalım.

11 → 12 → 13 → 14 → 15 →

16 → 17 → 18 → 19 → 20 →

ROMEN RAKAMLARI

1. 6 ile 20 arasındaki tek sayıları Romen rakamları ile yazınız.

2. Aşağıda Romen rakamları ile verilen sayıları karşılaştırınız. Aralarına "<" veya ">" sembollerinden uygun olanı yazınız.

a. XIII XV
b. IX VIII
c. XIV XV
ç. VI IV
d. XIX XX
e. VIII V

3. Aşağıdaki Romen rakamları ile verilen sayıları yazınız. Romen rakamlarını büyükten küçüğe doğru sembol kullanarak sıralayınız.

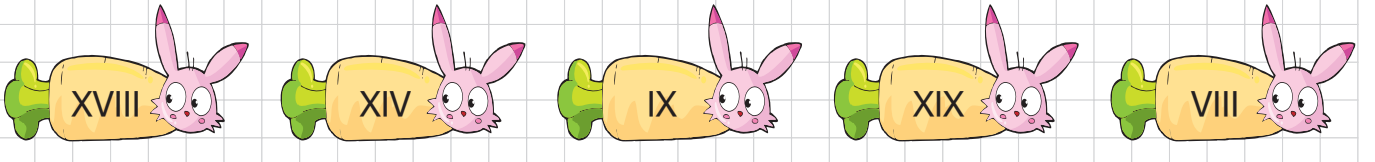

4. Aşağıda istenen sayıları Romen rakamları ile yazınız.

a. Bir haftadaki gün sayısı:

b. Bir elinizdeki parmak sayısı:

c. Bir yıldaki ay sayısı:

ç. Bir yıldaki mevsim sayısı:

d. İki basamaklı en küçük sayı:

e. İki basamaklı rakamları birbirinden farklı en küçük tek sayı:

f. 20'den 1 eksik olan sayı:

5. Romen rakamlarında "I" sayısı, "V" ve "X" sayılarının sağına yan yana en fazla kaç kez yazılabilir? Örneklerle gösteriniz.

TEST - 8

1. **Yandaki sayının Romen rakamı ile yazılışı hangisidir?**

A. XII B. IX C. XIII

2.

1	4	11	17	18
I	VI	XI	XVII	IIIX

Yukarıdaki sayıların Romen rakamı karşılıkları verilmiştir.

Bunlardan kaç tanesi yanlıştır?

A. 2 B. 3 C. 4

3. Tuna, kibrit çöplerini kullanarak yanda verilen sayıyı Romen rakamlarıyla yazmak istiyor.



Bunun için Tuna kaç tane kibrit çöpü kullanır?

A. 4 B. 5 C. 7

4. **13'ten önce ve sonra gelen sayıların Romen rakamlarıyla yazılışı aşağıdakilerden hangisidir?**

A. XII - XIII B. XII - XIV C. IIX - XIV

5.

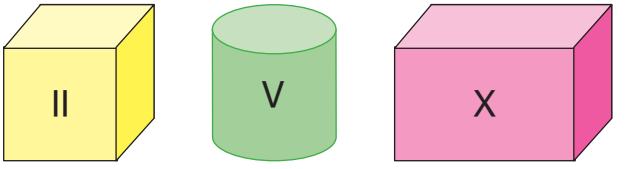

Verilen cisimlerin üzerinde yazan Romen rakamları ile aşağıdaki sayılardan hangisi yazılabilir?

A. 17 B. 16 C. 14

6.

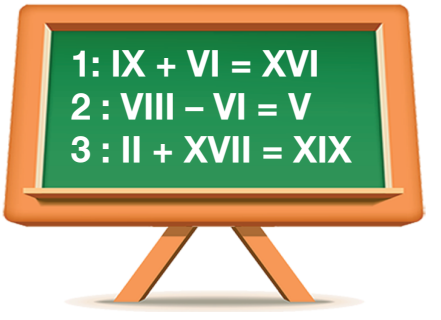

Yukarıda verilen işlemlerden hangisinin sonucu doğrudur?

A. 1 B. 2 C. 3

7. **Sadece üç kibrit çöpü kullanarak aşağıdaki sayılardan hangisi Romen rakamlarıyla yazılamaz?**

A. 3 B. 4 C. 7

8. **Yandaki karşılaştırmaya göre noktalı yere hangi sembol getirilmelidir?**

A. > B. < C. =

Berkay Yayıncılık ©